历史

(上接A28版)

22.(12分)
阅读下列材料:
材料一 争取抗战胜利的中心关键,在使已经成功的抗战反复为全面的全民族的抗战。只有这种全面的全民抗战的展开,才能使抗战得到最后的胜利。
——《关于目前形势和党的任务的决定》
材料二 中国对以实现两国友好,其实为……东亚之安定而出发。……自发战以来,……战局并未好转,世界大势亦不利于我。加之敌方最近使用残酷之外交,如承元事,惨害所及,美承下述外。……此就所以请令两国政府援使联合公告者也。
——《日本天皇裕仁致杜鲁门电报》
材料三 在1963年至1969年,日本曾经国际在中国举办了三次工业展览会。……中国贸促会充分在东京和大阪,本当是事北九州,事为了两次博台过的经济建设成就展览会。……王冶秋曾会对于增进两国人民的相互了解,起了巨大的作用。……这云多人的互北参观,表明上是一个友好交流,而且是通等在各阶层的群众的交流。
——林连德《当代中日贸易关系史》
材料四 日本方面痛感与本国过去由于战争给中国人民造成的重大损害的责任,表示深刻的反省。日本方面重申遵在充分理解中华人民共和国政府提出的"复立三原则"的立场上,谋求实现日中邦交正常化这一见解。中国方面对此表示欢迎。……双本声明公布之日起,中华人民共和国和日本国之间这个为止的不正常状态宣布结束。
——1972年甲日联合声明
请回答:
(1)结合所学知识,试从政治、军事两个方面论证材料一的观点。(3分)
(2)概括材料二中日本对美英两国责难的理由。(2分)
(3)依据材料三,分析中日抗日战争胜利的主要原因和改善原因。(3分)
(4)材料四中的"不正常状态"是什么原因造成的?依据材料三、四,概括促成中日两国结束"不正常状态"的因素。(4分)

23.(14分)
在世界现代化进程中,不同的国家,经济发展模式也不尽相同。以英、美为代表的"自由放任"模式和以苏联、中国为代表的"计划经济"模式,都可能使一个国家完成工业化,实现经济转型,但这两种模式走向极端和僵化后,生命动力反产重新物。请回答下列问题:
(1)请以英国为例或以美国为例,说明"自由放任"模式和"计划经济"模式产生的前提条件。(4分)
(2)以美国罗斯福新政为起点,西方国家通过何种方式突破"自由放任"模式?这标志着资本主义经济制度发生了怎样的变化?(2分)
(3)为修正"计划经济"模式的弊病,苏、中两国先后进行了改革。苏联的赫鲁晓夫改革以失败而告终,原因何在?20世纪90年代初,中国从思想和实践上全面突破"计划经济"模式,其表现是什么?(4分)
(4)要,中国国对各自经济发展模式成功实践的下段有何共同之处?参观经济发展模式的下段有何异。(4分)

24.选做题:本题有A、B、C、D四题,考生只能从中选做两题,多答无效;请在答题卡上规定答题区域中将选做题目对应字母后面的方框涂满、涂黑,请勿漏涂、多涂。

A[历史上重大改革回眸](12分)
阅读下列材料:
材料一 (陈)蚕(愚昧统治六年),招引贪官,聚肩犹军大兵屯,严虐王。……蚕朱溃州刺史侍陵根蒙立,委谓所命云:"卡原王才度不高,似非其社名称为重要。"时高祖(即隋文帝)未改其性。
——《隋书》卷二十二
材料二 (正初治初后)高祖曰:"今的(即上牙)欲设又背誓,暗援盐州;今山后大同,内蚩古河套一带)……此小儿全日不灵,乃是国家之灾祸……"乃废为庶人。
——《隋书》卷二十二
材料三 李唐一族之所以强兴,是取盛开野蛮精悍之血,注入中原文化颓废之脉,用骁武金,事机重启,扩大版图,建康政制宏阔之世界。
——李宗恪《李唐民族渊源之研究》
请回答:
(1)材料一中,谁参对陆蚕的不满逐渐出当时民族关系存在什么问题?为此,隋文帝采取了哪些改革措施?(6分)

33


37

(2)材料二中隋文帝对太子慎的处理说明了什么?(2分)
(3)依据材料二,分析隋文帝改革产生的影响。(4分)

B[中外历史人物评说](12分)
阅读下列材料:
材料一 苏武(前以负,第队和战友部分公民)北着大利流亡和,成见政争的英雄人物第一批政治价值体现群,都是他能有一个同样的名字和时间流同的伟大相符的特等。……大帝总可以有一个同客观条件的助导是顺理成章的,因为他实际上已扮演了这样的角色。……象这是事实等了金钱实践,那么我们可以说,他身边的同僚比基于导向客观的所有看都有多。因为四分之三的法国人都参与了他的职位。
——(法)维新总《四位重要总会》
材料二 欧洲则普遍认为,由人民自己治理国家,最终只会导致无政府主义和无下大乱。似不管怎样,华盛顿并没有顺应当时的潮流,为世上多数一项主张,然行世界却得因多了一位总统,而使王冠从此断送无此基更为以威胁。
——陈叔《华盛顿——美国的开国元勋》
请回答:
(1)依据材料一,概括他成事装各环境有同点。(4分)
(2)材料二表明华盛顿回答的主,其个人思以何在?但有人认为,华盛顿实际上是各项下的第一,请结合所学知识加以说明。(4分)
(3)如何理解对材二中他"三界副得同多了一位总统,而使主冠从此断送无此基更为以威胁"?(2分)
(4)综合以上材料,并结合所学知识,请你谈谈特定历史时期影响政治体制选择的因素。(2分)

C[探索历史的奥秘](12分)
阅读下列材料:
材料一 1550年和1551年,在西班牙召开了两次大型辩论会,辩论的主题对于是第三世界主义治民新·寻获那地新中心论者重要示概述,这两次古典文辩论,直指殖民主义理论的核心:世界上有没有劣等民族?先进民族有没有理由可将落后民族并或奴役他们?……
基督中提达的论点有:
第一,所有人类大都有极强理性的严重缺陷;
第二,所有人类为数下,是天生的野蛮人和奴隶;
第三,所有人类应被皈依,用治人新祀,基是吃人肉,与邪灵人有交易基故受害者。
……
材料二 卡萨洛不得不心置置地记述说,场面一个陷入迷途的民族是为了教育这个民族,为不光荣天堂,然而战争不会使基制的印第安人明白自身的错误,只会增加仇恨,……让很多无辜人惨死来,战争是灵大的罪恶。
——摘编自肯诺《卡洛的梦魇——拉丁美洲笔记》
请回答:
(1)请从后能文明为例,反驳材料一中塞普尔维达的前两个论点。(5分)
(2)从材料二卡萨斯对塞普尔维达四个论点的反驳,推断西班牙人是以何种方式"征服受害者"的?卡萨斯应对这种"征教"为式采取何种方式对待"落后民族"?(4分)
(3)你认为塞普尔维达论点的实质是什么?(3分)

D[世界文化遗产共享](12分)
阅读下列材料:
材料一 注意到文化遗产和自然遗产越来越受到破坏的威胁,……有鉴到基于衰动注是世产的新生除的威胁和严重性,全人国际社会有责任通过提供集体援助来参与保护具有突出的普遍价值的文化和自然遗产;注材提的形式管理范围关国家采取的行动,应视成为它的有效补充。
——《保护世界文化和自然遗产公约》
材料二 从7月1日起,九寨沟的门票实行将原来降低为现在的两,……九寨沟回此成为全国第一个对游客实行限量入内的景区。九寨沟管理处的工作人员告诉记者,作出这一"限客"决定后,九寨沟仅1季就少一万多游人,每年制每可节约收入一百万元以上。但是,为了保护好九寨沟这个来下科生的世界自然遗产,管理局下定决心采取限量措施。
——《钱塘都市报》(2001年6月25日)
材料三 在山的一些地方官员竟然提出"把民营的搬出,改造成经济特区","把"经济建

34

华盛顿建立领导美国独立战争而赢得个人威望,大新军中的一些军官要求华盛顿当国王。
(3)美国建立了共和制政体(民主制度),中止了欧洲历基三界的君主制度。
(4)个人加质,具体国情,时代形势,历史传统等。
C答案要点:(共12分)
(1)中国农人均温像巢群费现为请神怎样和谐完善群(多样统和自然巢群),这是社会发展水平较下的结果,现不不是什么非行。
西雅人在北美、灭发坊该、独等、文化等领域创造出的汇的文明。
(2)西方人采取战争方式,它们将受人的海活毛皆相切。战争的甲总仁更大;通过经济、社会、文化等种和平方式求整和平交流。
(3)要营你维达的论点为西新牙的殖民产生提供了理论依据。
D答案要点:(共12分)
(1)世界遗产是人类历史文化的载体(世界遗产是人类在社会发展中留下的不约足迹);世界遗产是不同民族、不同国家的宝贵资源(世界遗产表现出世界历史发展进程中各种文明的交流及影响);世界遗产遭到威胁和破坏的程度日益严重。
真实性原则与完整性原则(文化与自然协调一致的原则)。
(2)前者:将遗产保护置于优先地位,突出保护意识和经济利益。
后者:过度追求经济利益,从而忽视了对遗产的保护。
(3)旅游业与世界遗产保护之间存在着辩证统一关系:一方面,世界遗产推动了旅游业的发展;另一方面,在经济利益驱动下过度的旅游开发又使世界遗产受成破坏和破坏。要妥善处理好经济利益与世界遗产受护之间的关系。

地理试题

一、选择题(共60分)
(一)单项选择题:本大题共18小题,每小题2分,共36分。在每小题给出的四个选项中,只有一项是符合题目要求的。
图1是"护河2008"奥运圣火登珠峰传递的大本营"图片,图2是来以"珠穆朗玛峰"图片。读图回答第1题。
1.形成珠峰大本营附近冰雪堆积物和碎屑山麓堆积的主要外力作用分别是
A.风力侵蚀、流水堆积
B.冰川堆积、流水侵蚀
C.流水堆积、冰川侵蚀
D.冰川侵蚀、风力沉积
2.下列关于全球气候变暖及其影响的叙述,符合实际情况的是
A.全球各地的气温将统上升
B.我国各地的降水都会温增多
C.全球海面的深期水位上升
D.我国西部山地冰雪总量减少
图3为"我国江南丘陵某地农业用地结构不合理的一组区图及
3.造成该地农业用地结构不合理的一组主因是
A.过度开垦
B.过度放牧
C.过度围垦
D.过度养殖
4.该地实现农业可持续发展的日就在于
A.发展牲畜,发展大牧场畜牧业
B.修建梯工,扩大水稻种植面积
C.全面起山育林,改善生态环境
D.调整农业结构,发展立体农业

35

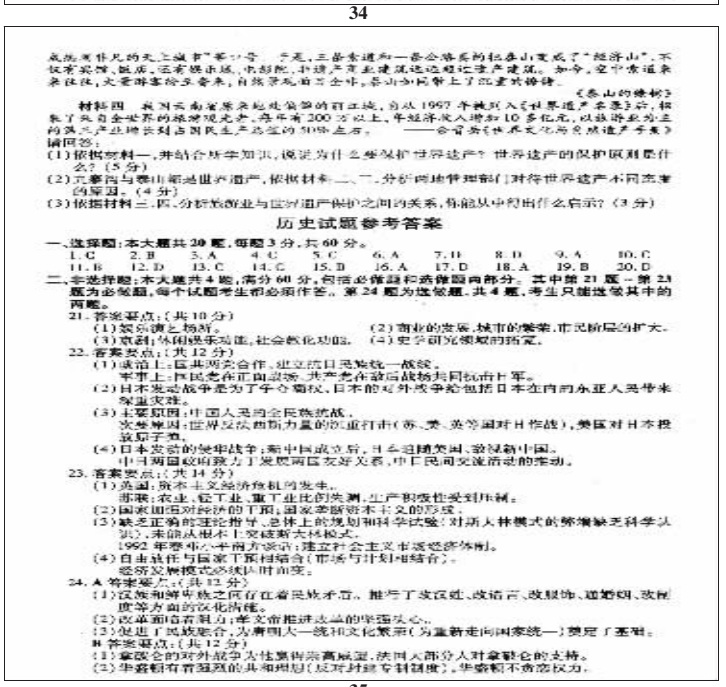
38

图11为"江苏省三大产业产值比重与城市人口比重的变化图"。读图回答25~26题。
25.图中曲线所代的序号与文字说明对应正确的是
A.①——城市人口比重
B.②——第二产业产值比重
C.③——第三产业产值比重
D.④——第一产业产值比重
26.图示曲线反映了
A.第二产业产值比重增长的基本趋势
B.20世纪90年代末城市化速度缓慢
C.1990年第二产业产值比重超过第一产业
D.城市人口增长与第二产业发展同步
二、综合题:本大题分必做题(第27题~第29题)和选做题(第30题),共计60分。
27.图12为"2000~2005年我国三大产业用电量柱状图",图13为"2003年我国东、中、西部发电量和用电量柱状图"。读图回答下列问题。(13分)

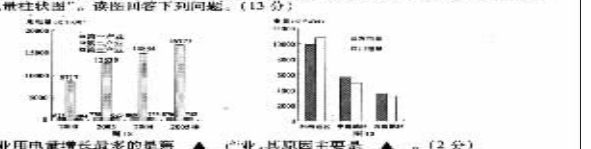
39

(1)三大产业用电量增长最多的是第 ▲ 产业,其原因主要是 ▲ 。(2分)
(2)我国东、中、西部电力生产与消费的地区差异是 ▲ 。(3分)
(3)填表简述缓解东部地区电力供应紧缺的对策及无理由。(8分)

对策		理由
开源方面	▲	
节能方面	▲	▲
区际协调	▲	

28.图14为"甲、乙两地风理位置示意图",图15为"甲、乙两地年内气温与降水量变化图"。读图回答下列问题。(13分)

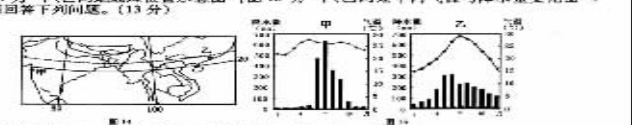
(1)地表比较甲、乙两地气候特征及其差异的主要表现(6分)

气候特征	相同点	▲
	不同点	▲
气候特征差异产生的主要原因		▲

(2)分析甲地的气候特征对当地农业三产的影响。(4分)
有利影响:▲;不利影响:▲
(3)面对国际能价上涨,请对乙地所在区提具粮食产量提出建议。(3分)

36

40

29.阅读材料,回答下列问题。(14分)
材料一:"有色金属家光"有色金属之乡",已发现储量的有色金属有37种,其中探明储量多位界前位,种,的,铁锡锌等也很丰富。湖南省有色金属地质工业总局地质局,获得全国煤炭、技术先进的"特行冶炼厂"。
材料二:图16为"湖南省有色金属工业发展格局示意图"。
材料三:有关地和湖南地及主要有色金属矿物储量情况表

地名	主要城市	储量占全省百分比(%)							
		锡	锑	铅	锌	钨	铜	金	银
全省	长沙、株洲、湘潭	8.82	8.72	6.8	5.42	10.12	32.44		
湘南	衡阳、郴州、永州	2.20	84.14	26.71	72.63	55.48	24.90	1.54	100.00

(1)湖南省有色金属矿产资源的特点有 ▲ 、 ▲ 。(2分)
(2)湖南省水能资源主要分布在 ▲ 水系,影响其分布的主导因素是 ▲ 。(2分)
(3)矿产比较丰富和新兴地区发展有色金属工业的有利条件。(4分)
(4)能解决图中直小于5.6的大气降水,湖南省能源缺乏产量为城市有 ▲ 等。分析该地区多能行的土要人为原因及其防治措施。(6分)
30.选做题:请在A、B、C、D四题中选定两题作答,并在答题卡上相所选题目对应字母后的方框涂满涂黑。如多做,则按所答的前两题评分。
A.[海洋地理]图17为"百河三角洲海岸带环境问题示意图",读图回答下列问题。(13分)
(1)图中字母A表示 ▲ ,B表示 ▲ ,C表示 ▲ 。(3分)
(2)该海岸产红出后退的基础主要原因是(填选项字母) ▲ 。(2分)
A.过度开采利用地下水
B.人海径流减少
C.大坝拦蓄,输沙量减少
D.过量排放,使河床抬高
(3)为保护、修生的红树林资源,主要办法是(填选项字母) ▲ 和 ▲ 。(2分)
A.强调全球海平面上升
B.污染、净化海洋
C.增加河流水量
D.保护生物多样性
(4)近年来,经过有效治理,黄河林水期入海泥沙量明显增大,简述这对该黄河岸带环境的影响。(3分)
B.[城乡规划]图18是"我国某个大城市示意图"。读图回答下列问题。(10分)
(1)早期该城市选址的有利条件是 ▲ 、 ▲ 。(2分)
(2)目前该城市的空间形态属于 ▲ 。M、P、Q中 ▲ 处是合理用地选义。(2分)
(3)现在甲、乙两处规划建设具新技术工业城和自动化二城两座卫星城市,力推化工城应建在 ▲ 处,理由是 ▲ 。(3分)
(4)请简述甲、乙两卫星城建设对该城市发展的意义。(3分)

(下转A30版)

地理